名前　　月　日

どちらがながい

（きほん）

1 ながさを　くらべましょう。

① どちらが　ながいですか。ながいほうに　○をつけましょう。

（　　）



（　　）

② どちらが　みじかいですか。みじかいほうに　○をつけましょう。

（　　）

（　　）

2 つくえの　よこの　ながさと　どあの　はばを、てえぷに　ながさを　うつしとって　くらべます。（１）と（２）は　どちらが　ながいでしょう。

（１）

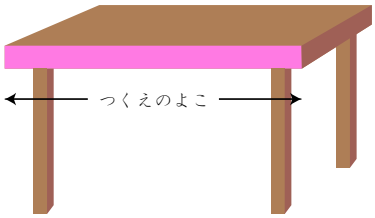

（２）



（１）　つくえのよこ

（２）　どあのはば

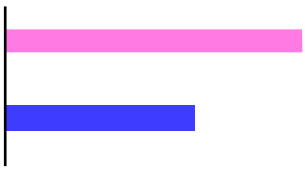

ふたば問題集
https://futaba-workbook.com

こたえは１６ページ

どちらがながい

名前　　月　日

3 ながさを　しらべて ㋐〜㋖ を　かきましょう。

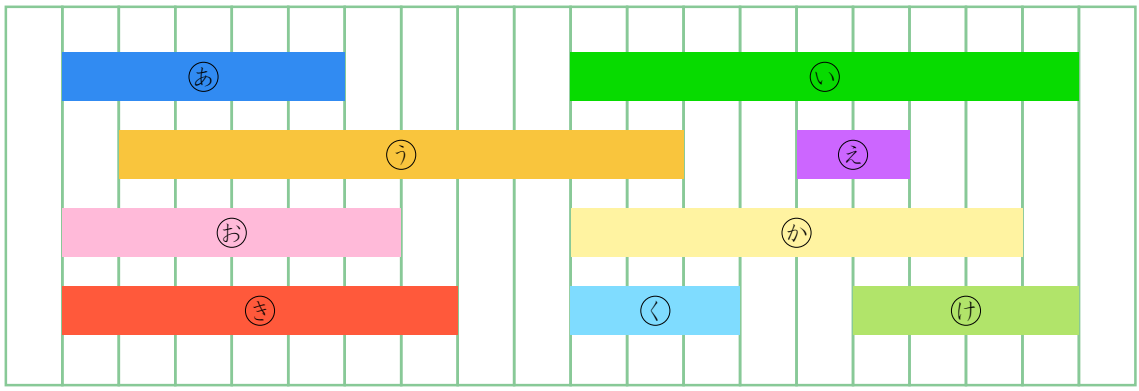

① ㋒より　２つぶん　みじかい　ものは □ です。

② ㋐より　１つぶん　ながい　ものは □ です。

③ ㋔の　はんぶんの　ながさは □ です。

④ ㋐と㋑を　あわせた　ながさは □ です。

⑤ ㋒は㋔と □ をあわせた　ながさです。

4 それぞれの　なまえを　かきましょう。

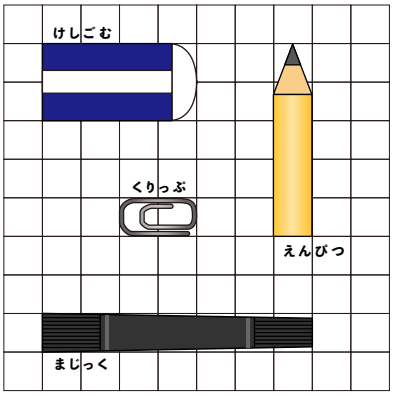

① いちばん　ながいものは　どれですか。（　　）

② いちばん　みじかいものは　どれですか。（　　）

ふたば問題集
https://futaba-workbook.com

こたえは１６ページ