名前　　月　日

7 時こくと時間

とけい（時こくと時間）

（基本）

1 下の絵を　見て、　何分間（なんぷんかん）か　いいましょう。



友だちが　来る

おやつを　食べる



家を出る



公園に　つく

①　友だちが　来てから　おやつを　食べるまでの

時間は、（　　）分間です。

②　友だちと　おやつを　食べてから　家を出るまでの

時間は、（　　）分間です。

③　友だちと　家を　出てから　公園に　つくまでの

時間は、（　　）分間です。

ふたば問題集
https://futaba-workbook.com

答えは２１ページ

とけい（時こくと時間）

名前　　月　日

2　今　７時４０分です。それぞれの時こくを　書きましょう。

①１時間後　（　　）　②１時間前　（　　）

③２０分後　（　　）　④２０分前　（　　）

3　つぎの時間は　何分間でしょう。

①　６時４０分から　７時まで



（　　）

②　５時２５分から　５時４５分まで



（　　）

ふたば問題集
https://futaba-workbook.com

答えは２１ページ

とけい（時こくと時間）

名前　　月　日

4　（　　）に　時こく　か　時間を　書きましょう。

①　学校を　出た（　　）は　３時２０分です。

②　家を　出てから　学校に　つくまでの（　　）は

　１０分間です。

③　朝ごはんを　食べはじめた（　　）は　７時です。

④　遊んでいた（　　）は　１時間２０分間です。

⑤　朝おきてから　家を出るまでの（　　）は　５０分間です。

5　（　　）に　あてはまる　数を　書きましょう。

①　長いはりが　１まわりする　時間は（　　）分

②　１時間＝（　　）分

③　１時間１０分＝（　　）分

④　１時間３０分＝（　　）分

⑤　７０分＝（　　）時間（　　）分

⑥　９０分＝（　　）時間（　　）分

ふたば問題集
https://futaba-workbook.com

答えは２１ページ